16 あみだくじを直そう

試行錯誤力　情報整理力　論理的判断力

とりくんだ日　月　日

チャレンジ

「あみだくじ」は，上から出発して，よこに進む線があるときにはいつも曲がり，曲がったあとでたてに進む線があるときにはいつも下に向かって進むくじです。

たとえば，右の「あみだくじ」では，1から出発すると太い線のように進んで1に着きます。

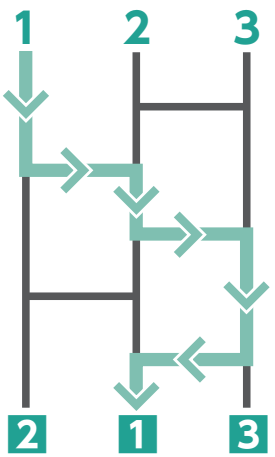

４しゅるいのおかしを，かなこさん，ゆうとさん，しんじさん，ゆかりさんの４人で分けるために，あみだくじを作って引きました。

ところが，くじを引いたあとに，かなこさんの弟がいたずらをして，よこの線を２本書きたしてしまいました。４人がもらったものをヒントに，書きたした２本のよこの線を見つけて，×をつけましょう。

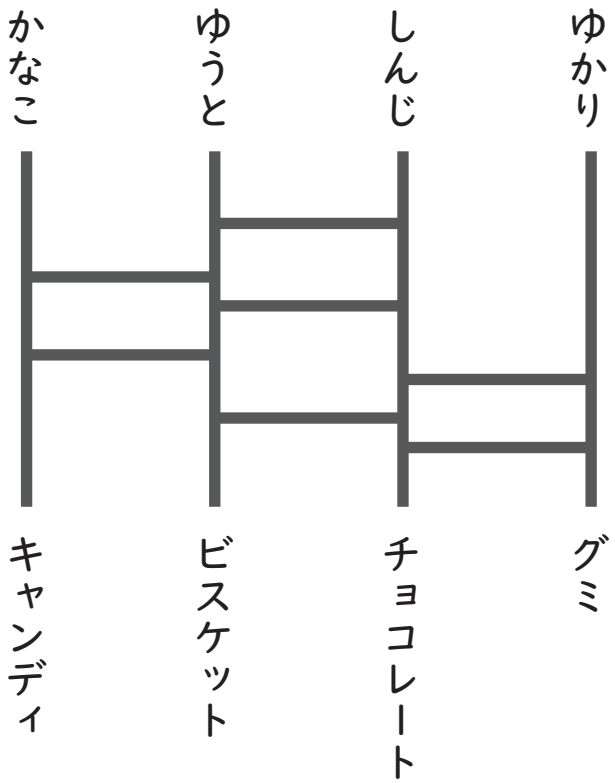

かなこさん

わたしはキャンディをもらったよ。

ぼくはビスケットをもらったんだ。


ゆうとさん

しんじさん

ぼくはグミをもらったよ。いたずらされたあとのくじを引いても，ぼくはグミが当たるんだね。

わたしは大すきなチョコレートが当たったの。

ゆかりさん

終わったら，さいごのページにシールをはろう。

こたえは【かいとう】の８ページ